# Централизованное тестирование. География: сборник тестов, 2024 год. Вариант 6.

При выполнении заданий с кратким ответом впишите в поле для ответа цифру, которая соответствует номеру правильного ответа, или число, слово, последовательность букв (слов) или цифр. Ответ следует записывать без пробелов и каких-либо дополнительных символов.

В заданиях, где нужно установить соответствие между двумя столбцами, ответ запишите в виде сочетания букв и цифр, соблюдая алфавитную последовательность букв левого столбца. Некоторые данные правого столбца могут использоваться несколько раз или не использоваться вообще. Например: А1Б1В4Г2.

Если вариант задан учителем, вы можете вписать или загрузить в систему ответы к заданиям с развернутым ответом. Учитель увидит результаты выполнения заданий с кратким ответом и сможет оценить загруженные ответы к заданиям с развернутым ответом. Выставленные учителем баллы отобразятся в вашей статистике.

**1.** Азимут на север равен:

1) 45° 2) 90° 3) 180° 4) 270° 5) 0° (360°)

**2.** Магматическое происхождение имеет горная порода:

1) гипс 2) глина 3) пемза 4) кварцит 5) торф

**3.** Укажите пункт (среди отмеченных на карте), расположенный в области низкого атмосферного давления (циклона):

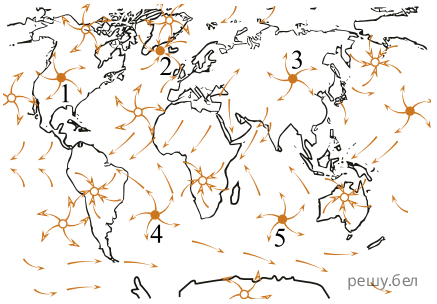


1) 1 2) 2 3) 3 4) 4 5) 5

**4.** На рисунке стрелкой отмечено(-ен):




1) русло реки 2) исток реки 3) устье реки 4) левый приток 5) правый приток

**5.** На фотографии показан природный комплекс:

1) тайга 2) тундра 3) лесотундра 4) антарктическая пустыня 5) арктическая пустыня

**6.** Укажите антропогенную причину изменения литосферы:

1) землетрясения 2) извержения вулканов
3) обломочные лавины и грязевые потоки
4) тектонические движения земной коры
5) изъятие крупных земельных участков для разработки месторождений

**7.** В состав региона Западная Европа входит государство:

1) Латвия 2) Украина 3) Франция 4) Италия 5) Беларусь

**8.** Укажите государство с наиболее высоким удельным весом городского населения:

1) Азербайджан 2) Польша 3) Таджикистан 4) Великобритания 5) Казахстан

**9.** К исчерпаемым возобновляемым природным ресурсам относятся(-ится):

1) руды цветных металлов 2) энергия Солнца 3) энергия ветра
4) внутриземное тепло 5) биологические ресурсы

**10.** Укажите вид деятельности (см. фото), который относится к третичному сектору экономики:

1)

2)

3)

4)

5)

**11.** Укажите общую характеристику для выделенных на карте государств:

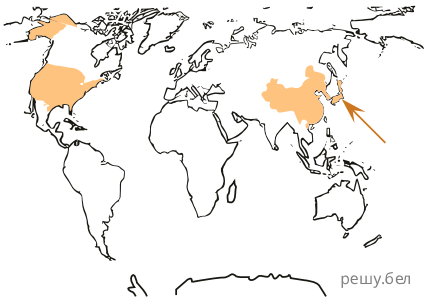


1) федеративная форма политико-территориального устройства
2) монархическая форма правления
3) тройка мировых лидеров по численности населения
4) ведущие страны — производители солнечной электроэнергии
5) тройка мировых лидеров по поголовью овец

**12.** К зерновым сельскохозяйственным культурам относится:

1) соя 2) рапс 3) пшеница 4) подсолнечник
5) лен-долгунец

**13.** Витебская возвышенность на картосхеме отмечена цифрой:

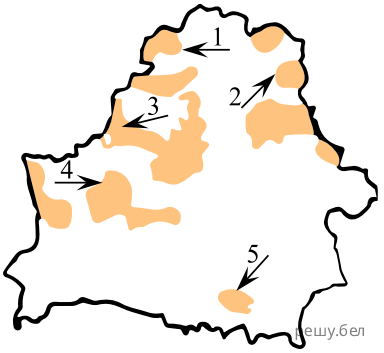


1) 1 2) 2 3) 3 4) 4 5) 5

**14.** На карте отмечено:

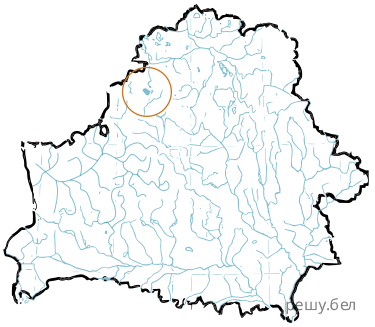


1) озеро Долгое 2) озеро Нарочь 3) озеро Дривяты
4) озеро Червоное 5) Вилейское водохранилище

**15.** В Беларуси сырьевой фактор является главным при размещении производства:

1) хлопчатобумажных тканей 2) кондитерских изделий
3) азотных удобрений 4) доломитовой муки
5) фосфорных удобрений

**16.** Промышленный центр Беларуси, в котором производят газовые и электрические плиты, отмечен на карто-схеме точкой с цифрой:

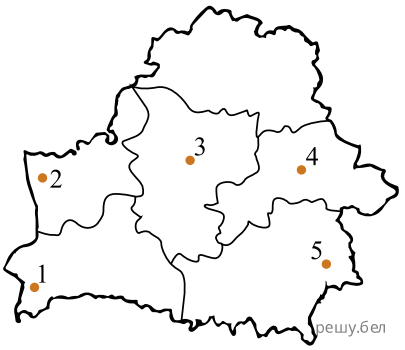


1) 1 2) 2 3) 3 4) 4 5) 5

**17.** Назовите полуостров, отмеченный на карте.

В бланк ответов запишите только название полуострова. Например: Лабрадор.

**18.** Укажите географические объекты, расположенные в Северном полушарии:

1) озеро Эйр-Норт;
2) пустыня Сахара;
3) горы Тянь-Шань;
4) вулкан Гекла;
5) Лаплатская низменность.

Ответ запишите цифрами (порядок записи цифр не имеет значения). Например: 125.

**19.** Установите соответствие между отмеченными на картосхеме климатическими поясами (А и Б) и их названиями:

1) тропический;
2) экваториальный;
3) умеренный;
4) субтропический;
5) субэкваториальный.

Ответ запишите в виде сочетания букв и цифр, соблюдая алфавитную последовательность букв. Например: А2Б1.

**20.** Установите соответствие:

| Океан | Характеристика океана |
|---|---|
| А) Атлантический<br>Б) Северный Ледовитый | 1) самый теплый в Мировом океане<br>2) в него впадает самая полноводная река планеты<br>3) имеет самую крупную шельфовую область в Мировом океане шириной до 1500 км<br>4) отсутствуют холодные течения<br>5) расположен главный мировой район добычи нефти — Персидский залив |

Ответ запишите в виде сочетания букв и цифр, соблюдая алфавитную последовательность букв левого столбца. Помните, что не все данные правого столбца могут быть при этом использованы. Например: А2Б1.

**21.** В характеристике Австралии и Океании ВЕРНЫМ является утверждение:

1) Австралия превосходит по площади Антарктиду;
2) материк представляет собой один из обломков Гондваны;
3) исторически Океанию делят на две природные области;
4) северная окраина континента расположена в экваториальном климатическом поясе;
5) природная зона переменно-влажных лесов распространена на западной окраине материка.

Ответ запишите цифрой. Например: 5.

**22.** Выберите природный регион Южной Америки, обозначенный на картосхеме цифрой, для которого ВЕРНА характеристика:

Обширное плоскогорье, расположенное на щите древней платформы. Здесь берут начало правые притоки реки Амазонки. Распространен кампос.

Ответ запишите цифрой. Например: 5.

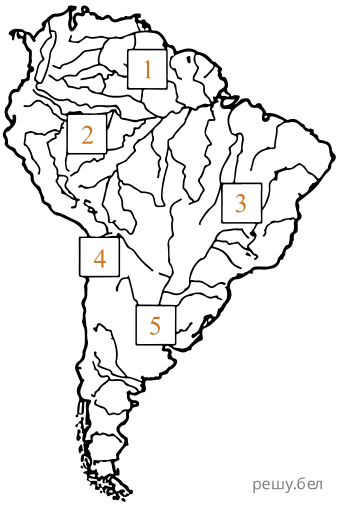


**23.** Выберите пункт, обозначенный на карте Африки точкой с цифрой, который расположен в пределах распространения типа климата со следующей характеристикой:

Формируется под влиянием одного типа воздушных масс в течение года. Характеризуется постоянно высокими температурами воздуха $(+26 \ldots +28°C)$. В пределах пояса выпадает максимальное количество осадков на континенте.

Ответ запишите цифрой. Например: 5.

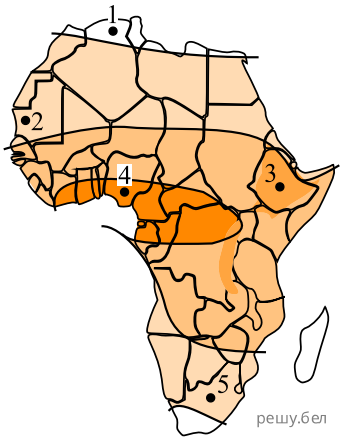

**24.** Типичными представителями фауны Австралии и Океании являются:

1)

2)

3)

4)

5)

Ответ запишите цифрами (порядок записи цифр не имеет значения). Например: 15.

**25.** Выберите пункт на карте Евразии, расположенный в пределах распространения типа климата, которому соответствует предложенная климатограмма.

Ответ запишите цифрой. Например: 5.

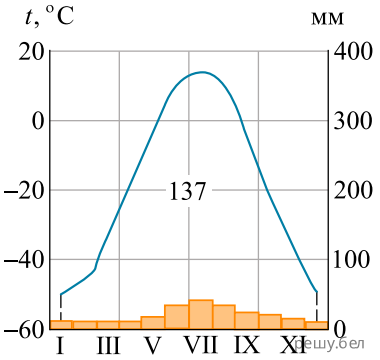


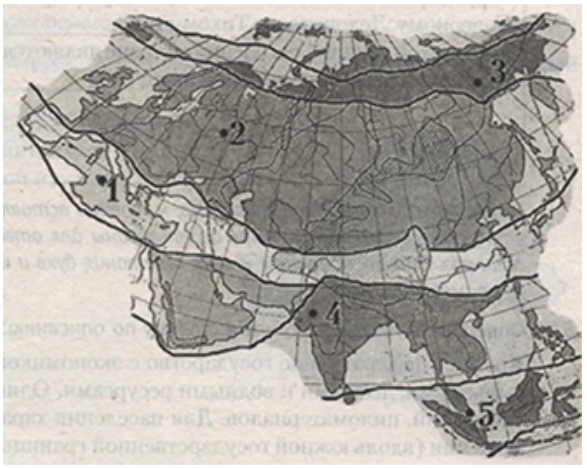

**26.** Прочитайте приведенный ниже текст, в котором пропущен ряд слов. Вставьте на места пропусков слова из предложенного списка, подходящие по смыслу.

| | |
|---|---|
| Основной экономической предпосылкой старения населения мира является А) _____. Во всех регионах, за исключением Б)_____, происходит старение населения. В связи с этим происходит смена типов воспроизводства населения — переход к В)_____ типу(-ам) воспроизводства | 1) Азия<br>2) Африка<br>3) прогрессивный<br>4) стационарный и регрессивный<br>5) снижение уровня социально-экономического развития<br>6) общий рост уровня социально-экономического развития |

Выбирайте слова последовательно, мысленно вставляя их на места пропусков в нужной форме. Помните, что не все слова могут быть использованы для ответа. Каждое слово может быть использовано только один раз. Ответ запишите в виде сочетания букв и цифр, соблюдая алфавитную последовательность букв. Например: А2Б1В4.

**27.** Установите ЕДИНСТВЕННО ВЕРНОЕ соответствие:

| Государство | Экономические центры |
|---|---|
| А) Египет<br>Б) Португалия<br>В) Грузия | 1) Лиссабон, Мадрид<br>2) Каир, Александрия<br>3) Барселона, Париж<br>4) Тбилиси, Алматы |

Ответ запишите в виде сочетания буквы и цифры. Например: А1.

**28.** В характеристике социально-экономического развития Южной Америки ВЕРНЫМ является утверждение:

1) в большинстве стран государственный язык — португальский;
2) большая часть населения находится в возрасте 15–65 лет;
3) большая часть электроэнергии производится на ТЭС;
4) страны континента входят в тройку мировых лидеров по валовым сборам пшеницы;
5) характерно наличие сети трансконтинентальных железнодорожных магистралей.

Ответ запишите цифрой. Например: 5.

**29.** Прочитайте приведенный ниже текст, в котором пропущен ряд слов. Вставьте на места пропусков слова из предложенного списка, подходящие по смыслу.

| | |
|---|---|
| Территорию России омывают воды морей, принадлежащих трем океанам — Северному Ледовитому, Тихому и А)_____. Второй по численности этнической группой населения в стране являются Б)_____. Абсолютное большинство населения проживает в В)_____ части страны | 1) азиатская<br>2) Атлантический<br>3) башкиры<br>4) европейская<br>5) Индийский<br>6) татары |

Выбирайте слова последовательно, мысленно вставляя их на места пропусков в нужной форме. Помните, что не все слова могут быть использованы для ответа. Каждое слово может быть использовано только один раз. Ответ запишите в виде сочетания букв и цифр, соблюдая алфавитную последовательность букв. Например: А2Б1В4.

**30.** Определите государство и его столицу по описанию:

Крупное федеративное государство с экономикой постиндустриального типа. Богато минерально-сырьевыми, лесными и водными ресурсами. Один из мировых лидеров по производству калийных удобрений, пиломатериалов. Для населения характерна низкая плотность и неравномерность размещения (вдоль южной государственной границы).

В бланк ответов запишите только название столицы государства. Например: Минск.

**31.** В характеристике социально-экономического развития Соединенных Штатов Америки (США) ВЕРНЫМ является утверждение:

1) в структуре населения наибольшую долю составляют афроамериканцы;
2) имеют наибольшую среди стран континента численность населения;
3) по производству легковых автомобилей не уступают ни одной стране в мире;
4) скотоводство в стране имеет исключительно мясное направление;
5) экспорт товаров существенно превышает импорт.

Ответ запишите цифрой. Например: 5.

**32.** Укажите государство, отмеченное на карте цифрой, которому соответствует характеристика:

Унитарная монархия, относящаяся к группе наиболее развитых стран. Обладает крупными запасами первичных источников энергии (нефть, уголь, природный газ). Более 60% нефти, добываемой на шельфе одного из морей, поставляет на экспорт.

Ответ запишите цифрой. Например: 5.

**33.** Установите соответствие:

| Характеристика государства | Государство |
|---|---|
| А) федеративное по форме политико-территориального устройства, одно из ведущих угледобывающих государств мира<br>Б) унитарное по форме политико-территориального устройства, входит в тройку мировых лидеров по производству чугуна<br>В) монархия, одна из тройки ведущих стран мира по количеству туристских прибытий | 1) Испания<br>2) Индия<br>3) Россия<br>4) Япония |

Ответ запишите в виде сочетания букв и цифр, соблюдая алфавитную последовательность букв левого столбца. Помните, что не все данные правого столбца могут быть при этом использованы. Например: А2Б1В4.

**34.** Определите полезное ископаемое Беларуси по следующей характеристике:

Крупнейшие в стране месторождения этого полезного ископаемого — Речицкое и Осташковичское — приурочены к девонским отложениям Припятского прогиба. Залегает на глубинах от 1600 до 4600 м.

В бланк ответов запишите название полезного ископаемого в виде слова или нескольких слов. Например: мел.

**35.** Укажите физико-географическую провинцию Беларуси, отмеченную ВЕРНА характеристика:

Формирование рельефа связано с деятельностью ледников, особенно поозерского. Поверхность провинции имеет чашеобразную форму с озерно-ледниковой низиной в центре. Расположен Национальный парк «Нарочанский».

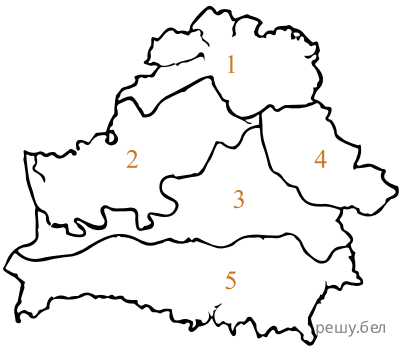


Ответ запишите цифрой. Например: 5.

**36.** В характеристике хозяйства Беларуси ВЕРНЫМ является утверждение:

1) добыча каменной соли ведется исключительно открытым способом;
2) наибольшее количество электроэнергии потребляет жилищно-коммунальное хозяйство;
3) в структуре производства транспортных средств наибольшая доля принадлежит грузовым автомобилям;
4) в структуре сельскохозяйственных угодий преобладают луговые земли и пастбища;
5) автомобильный транспорт специализируется на перевозках грузов и пассажиров преимущественно на большие расстояния.

Ответ запишите цифрой. Например: 5.

**37.** В облаке слов зашифрована продукция промышленного производства одной из административных областей Беларуси.

В бланк ответов запишите только название области.

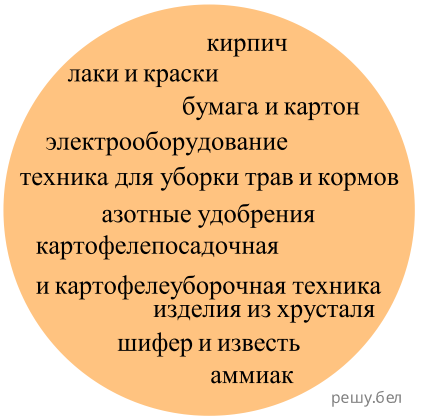


**38.** Используя данные таблицы, рассчитайте, на сколько человек изменилась численность населения страны за год, если на начало года она составляла 33 млн человек.

| Коэффициент рождаемости, ‰ | Коэффициент смертности, ‰ | Количество эмигрантов, тыс. чел. | Количество иммигрантов, тыс. чел. |
|---|---|---|---|
| 17 | 5 | 256 | 54 |

Ответ запишите в виде целого числа со знаком (+), если численность населения увеличилась, или со знаком (-), если численность населения уменьшилась. Использование знака (+) или (-) обязательно. Например: +100000.